Lectura 10

La revolución de los viejos

El periódico digital elDiario.es publica *La revolución de los viejos*. Se trata de un dosier muy extenso que pone el foco en la vejez. Y lo hace de un modo poco usual; en realidad, es un canto a la edad. Quita hierro al hecho de cumplir años y echa por tierra el estigma que lo rodea. ... ...

No hay duda de que el cambio social ha transformado de arriba abajo los factores de influencia en la vejez. El peso de las variables culturales y socioeconómicas en esta etapa es amplio. ... ...

La calidad de vida y el avance de la ciencia son dos de sus aliados. Y juegan a su favor. En consecuencia, cada vez son más las voces que resaltan el valor de los mayores en la sociedad. Es el caso de la revista, que además reivindica la palabra viejo. ... ...

La dependencia, la soledad o la enfermedad están presentes a lo largo de la vida; de un modo u otro, nos afectan en algún momento. Sin embargo, se achacan a la vejez, como si fueran atributos exclusivos de ella. Y no es así. Los mayores no son una amenaza ni una carga, sino un activo útil para la sociedad de hoy. ... ...

Repase atentamente la lectura; después, escriba a la derecha cuántas veces aparece la letra f (efe) en cada línea y súmelas. ...

1. Señale el resultado correcto de cada operación.

132	+ 58	+ 50	=	240 / 210		226	+ 34	+ 10	=	280 / 270
164	+ 46	+ 40	=	220 / 250		248	+ 52	+ 60	=	360 / 350
189	+ 21	+ 20	=	250 / 230		291	+ 49	+ 80	=	410 / 420
193	+ 37	+ 30	=	260 / 270		265	+ 55	+ 70	=	390 / 380

2. Inserte las palabras en los cuadros vacíos según la posición de la letra M.



Amarillo, mercado, aro, mano, almohada, manzana, tan, farmacia, oro, seto, hito, manta, coz, tales, amo, mecanismo, timo, mentira, caramelo, omega, tarima manifiesto, tono, ombligo.

3. ¿Cómo continúa la siguiente secuencia de números y por qué?

1, 1, 2, 3, 5, 8, 13, 21… _____

_____

4. Subraye cada cifra situada junto a su inmediata posterior, como se ve en el ejemplo de la primera fila.

788	790	792	794	795	798	799	801	804	805
807	809	810	812	814	816	818	819	821	822
824	826	829	832	834	835	837	839	840	842
844	845	848	849	852	854	856	857	859	861
863	865	866	868	869	872	875	877	879	881
883	885	887	889	891	893	894	896	897	899
901	903	905	906	908	909	911	913	915	916

5. Encuentre un nombre propio en medio de los puntos. _____

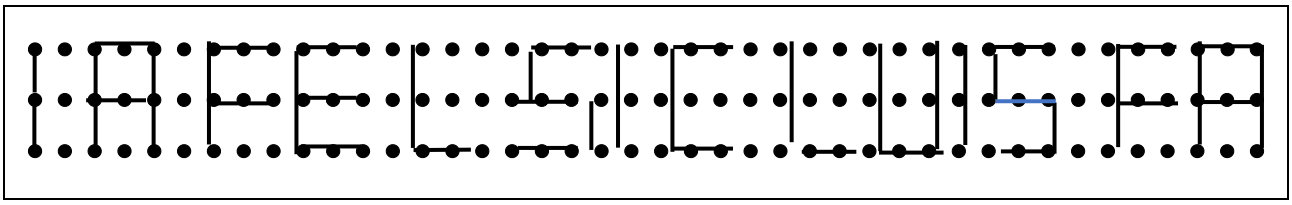

6. Señale cuáles de estas imágenes se pueden ver en un bosque.



7. Descubra tres profesiones agregando, una sola vez, las letras del cuadro a las escritas a su izquierda.

T A N S P I S E C T R I C O N T E R R O

S T A T A F E
L O R T I A N

_____ _____ _____

8. Si seguimos construyendo esta pirámide de números, ¿cuántas filas más hacen falta para llegar al 121? _____

					1					
				2	3	4				
			5	6	7	8	9			
		10	11	12	13	14	15	16		
	17	18	19	20	21	22	23	24	25	

9. Coloque los números del 1 al 7 en los cuadros vacíos de forma que la suma de tres números alineados sea siempre 10.

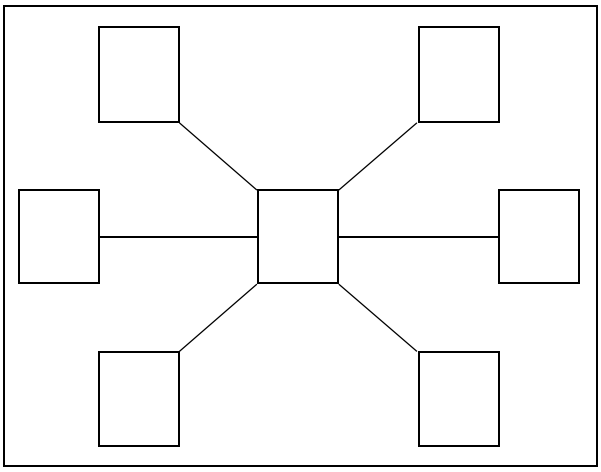

10. Indique el número de caras que sonríen y el de cuántas no lo hacen.

Sí _____ No ____